香海正覺蓮社佛教梁植偉中學
設計與科技

小測編號：2030　　小測課題：斜角投影法 2

班別：_____(　　)　　測驗日期：_____

姓名：_____　　積分：_____／_____

建議答案

每個答案 1 分。

下列是一些立體的正投影圖（第一角投影），試

a. 用間尺繪畫其斜角投影立體圖，並用箭咀指出正視圖的方向。

	正投影圖	斜角投影立體圖
1	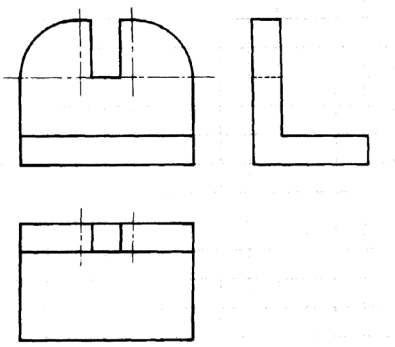	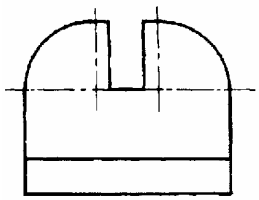
2	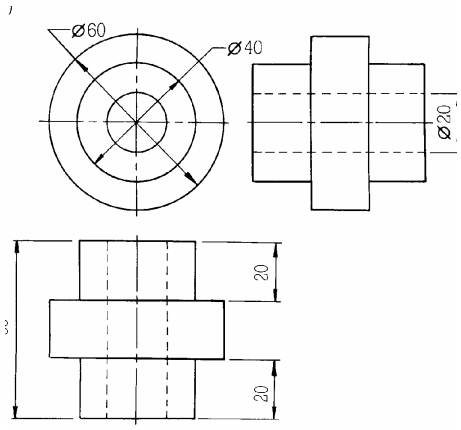	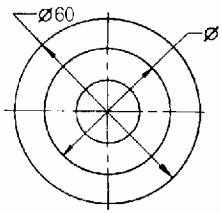

--- 全卷完 ---